Unidad 1: La complejización de las primeras sociedades

Prueba Paleolítico y Neolítico

Nombre: _____ **Curso:** _____

Puntaje total: _____ **/ 57,5 puntos**

I. Análisis de fuentes: Lea las siguientes fuentes y destaque o subraye las ideas principales. Luego, conteste las preguntas. (8 puntos)

Fuente 1:

"Durante este periodo, la práctica de actividades como la recolección y la caza, y el llevar una vida de tipo nómade, determinaron un tipo de economía depredadora y la existencia de asentamientos no permanentes o transitorios".

Primeras sociedades humanas y su relación con el entorno (2020), p. 30, Historia, Geografía y Ciencias Sociales 7mo básico.

Vocabulario:
Economía depredadora: tipo de economía en la que se obtienen y consumen los recursos que el medio entrega de manera natural.
Asentamientos: lugar donde se instala un grupo humano.

1. ¿La fuente 1 hace alusión al periodo Paleolítico o Neolítico? _____

2. Escriba tres frases o palabras clave de la fuente que lo demuestren.

_____

_____

_____

Fuente 2:

"La aparición de la agricultura y la sedentarización fueron dos fenómenos tan importantes que, a partir de entonces, ya nada sería igual a lo anterior. […] En esta nueva situación los seres humanos trabajan pensado en disponer en el futuro de alimentos […], por medio de la agricultura y la ganadería. El resultado, como se puede ver fácilmente, era la adquisición de algo en lo que seguramente venían pensando hacía largos años: la […] seguridad material o económica a partir de los alimentos suficientes".

García, David (2010). *Historia universal: XXI capítulo.*

3. ¿La fuente 2 hace alusión al periodo Paleolítico o Neolítico? _____

4. Escriba tres frases o palabras clave de la fuente que lo demuestren.

_____

_____

_____

II. **Verdadero o Falso:** Escriba una V si es verdadero o una F si es falso. Justifique las falsas. (9 puntos)

____ La Historia estudia solamente la vida de las sociedades humanas que dejaron testimonios escritos.

_____

____La Prehistoria o Paleohistoria se inició con el descubrimiento de la agricultura.

_____

____El dominio del fuego fue un logro del Homo Erectus.

_____

____ Entre los continentes que se poblaron en épocas más tardías se encuentra América.

_____

____Una fuente primaria es aquella interpretación posterior a los hechos investigados.

_____

____El nomadismo fue el estilo de vida predominante durante el Paleolítico.

_____

____ La cultura es un rasgo característico de las bandas de animales.

_____

____Las primeras ceremonias religiosas las realizó el Australopithecus.

_____

____Las fuentes materiales son utilizadas para estudiar solamente aquellas sociedades que no dejaron documentos escritos.

_____

III. Análisis de imágenes: Observe las siguientes imágenes y conteste las preguntas. (6 puntos)



a) ¿La imagen representa un tipo de vida nómade o sedentaria? ¿Por qué las sociedades más primitivas llevaban ese tipo de vida?

b) ¿A qué corresponde esta imagen? ¿En qué consistió?

c) ¿Qué descubrimiento se representa en la imagen y por qué se considera de importancia fundamental para las sociedades recolectoras?

IV. **Confección de mapa:** Ubique los elementos de la simbología en el mapa. Luego, dibuje las teorías de poblamiento americano con distintos colores. No olvide incluirlo en la simbología. (8,5 puntos)

Simbología

Océano Pacífico

Océano Atlántico

África

Europa

Asia

América

Antártica

Ruta de Bering

Ruta costera

Ruta atlántica

Ruta transpacífica

Ruta Oceánica – Antártica

V. Selección múltiple: Marque la alternativa correcta. (8 puntos)

1. Considerando la información del mapa, ¿cuál fue una de las características de la expansión del Homo Sapiens por el mundo?

a) Se inició en Oceanía
b) Se inició en Europa
c) Se desarrolló desde África al resto del mundo.
d) Se realizó en forma simultánea en Asia y Europa.

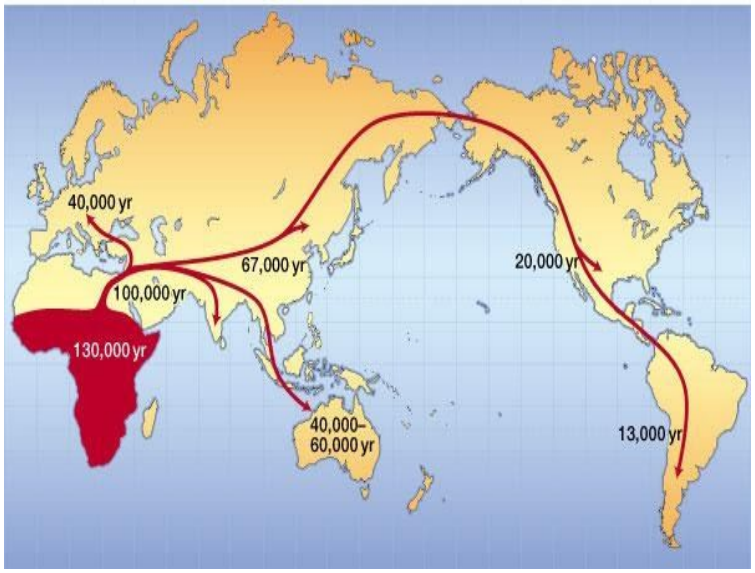

2. El largo período de la Prehistoria se divide en varias etapas, de acuerdo a las actividades que realizaba el ser humano. ¿Cuál es una diferencia entre el período Paleolítico y Neolítico?

a) El uso del fuego
b) La forma de obtener alimento
c) El desarrollo de creencias religiosas
d) La utilización de herramientas de piedra

3. "Manifestaciones artísticas desarrolladas por los hombres del Paleolítico sobre las paredes de sus cuevas. Se cree que estas prácticas eran de carácter mágico-religioso para propiciar la caza". El texto hace mención a:

a) El desarrollo de la artesanía
b) Las Venus paleolíticas
c) Las pinturas rupestres
d) La construcción de dólmenes

4. "Serie de <u>cambios biológicos, físicos y mentales</u> que permitieron al ser humano una mejor adaptación al medio ambiente que los rodeaba". La definición anterior hace referencia al concepto de:

a) Cultura
b) Evolución
c) Civilización
d) Revolución

5. Considerando la información del mapa, es correcto afirmar que algunas de las teorías que explican que el poblamiento americano postularon que:

   I. Los hombres de origen australiano habrían cruzado a través del puente antártico.
   II. Las bandas cazadoras recolectoras habrían cruzado desde Asia hasta América por un "puente terrestre".
   III. Los nómades asiáticos cruzaron el Océano Pacífico utilizando embarcaciones.

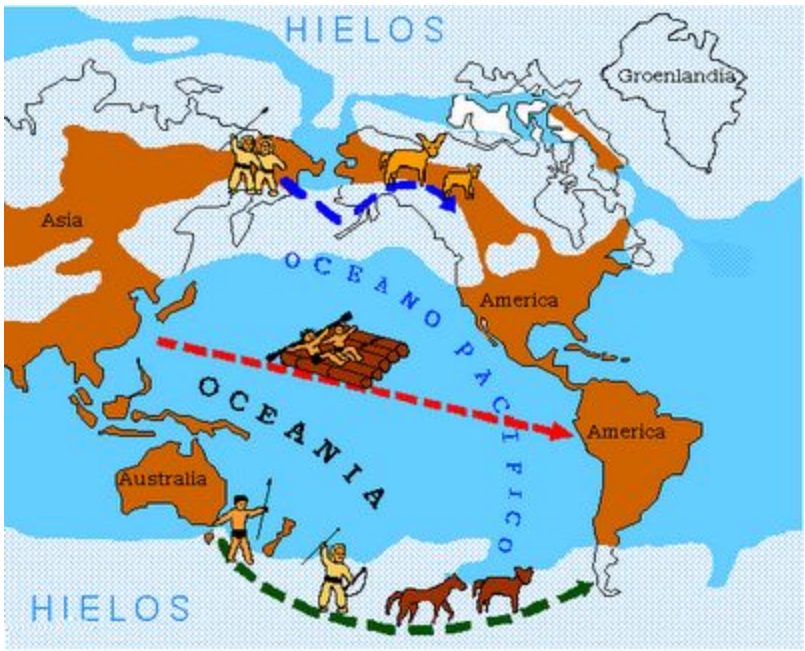

a) Solo I
b) Solo II
c) Solo I y II
d) I, II y III

6. Entre algunos de los rasgos que nos distinguen de los primates podemos encontrar:

   I. Bipedismo y posición erguida
   II. Dedo pulgar oponible en la mano
   III. Capacidad de razonar o pensar

a) Sólo I
b) I y II
c) I y III
d) I, II y III

7. Uno de los hitos más importantes de la evolución de la humanidad es la llamada "revolución neolítica" que consistió principalmente en:

a) La invención de los dólmenes
b) El descubrimiento de la escritura
c) El descubrimiento de la agricultura y de la ganadería
d) El desarrollo de la caza y la recolección

8. Respecto al concepto de "cultura" podemos afirmar que:

   I. Es un rasgo característico de las sociedades humanas.
   II. Es el modo de vida de las sociedades humanas con todas sus realizaciones materiales, espirituales y formas de relacionarse.
   III. Las creaciones culturales comenzaron a desarrollarse durante el Neolítico.

a) Solo I
b) Solo II
c) Solo I y II
d) I, II y III

VI. Identifique y escriba: Lea cada característica, identifique a qué ser humano corresponde y escríbalo en la línea. (5 puntos)

Homo Habilis – Homo Neanderthal - Australopithecus – Homo Sapiens – Homo Erectus

1) Fueron los primeros en fabricar herramientas. _____

2) Habitaron África y fueron los primeros bípedos. _____

3) Fueron los primeros en enterrar a sus muertos. _____

4) Fueron los primeros en aprender a usar el fuego. _____

5) Desarrollaron el lenguaje y el pensamiento y conquistaron todos los continentes. _____

VII. **Términos pareados:** Relacione los conceptos de la primera columna con las definiciones de la segunda columna. Escriba el número correcto en el espacio asignado. (6 puntos)

1	Bipedismo
2	Cultura
3	Nómade
4	Rupestre
5	Agricultura
6	Hominización

	Actividad económica fundamental de los pueblos productores de alimentos.
	Arte desarrollado durante los Tiempos Primitivos que consistía en pintar las murallas de las cavernas.
	Proceso a través del cual se producen transformaciones biológicas de los representantes del género humano hasta alcanzar las características físicas de los seres humanos actuales.
	Pararse en dos pies para caminar, lo que le permite liberar sus manos de las funciones de desplazamiento y utilizarlas en la manipulación y transporte de objetos.
	Rasgo esencial de toda la sociedad humana. Corresponde al modo de vida de una sociedad humana, con el conjunto de elementos creados por el ser humano, como la escritura, la ciencia, el arte, etc.
	Se refiere a la persona que se traslada frecuentemente de un lugar a otro en busca de alimentos.

VIII. **Complete la tabla:** En la siguiente tabla, marque con una X si la característica corresponde al Paleolítico, al Neolítico o a ambos. (7 puntos)

Característica	Paleolítico	Neolítico
Viven únicamente de la caza, la recolección y la pesca.		
Desarrollan actividades artesanales como la alfarería y la textilería.		
Viven en cavernas o campamentos temporales.		
Se organizan en bandas.		
Realizan enterramiento de muertos.		
Vida sedentaria.		
Comienzan a realizar pinturas rupestres.		
Utilizan el fuego como fuente de luz, para cocinar y para espantar animales.		
Tienen una economía depredadora.		
Viven de la ganadería y la agricultura.		
Viven en aldeas.		
Vida nómade.		
Se organizan en comunidades numerosas.		
Tienen una economía productora.		